PROVES D'ACCÉS A LA UNIVERSITAT	PRUEBAS DE ACCESO A LA UNIVERSIDAD
CONVOCATÒRIA: JUNY 2011	CONVOCATORIA: JUNIO 2011
DIBUIX TÈCNIC II	DIBUJO TÉCNICO II

BAREM DE L'EXAMEN:
Heu de contestar les quatre preguntes de l'exercici A o les quatre de l'exercici B, sense esborrar construccions auxiliars.
BAREMO DEL EXAMEN:
Hay que contestar a las cuatro preguntas del ejercicio A o a las cuatro del ejercicio B, sin borrar construcciones auxiliares.

EXERCICI B EJERCICIO B

1.- Halla el punto del eje radical de las dos circunferencias dadas, desde el que se ve el segmento OO` bajo un ángulo de 60º. (3 PUNTOS).

1.- Troba el punt de l'eix radical de les dues circumferències donades, des del qual es veu el segment OO` sota un angle de 60º . (3 PUNTS).

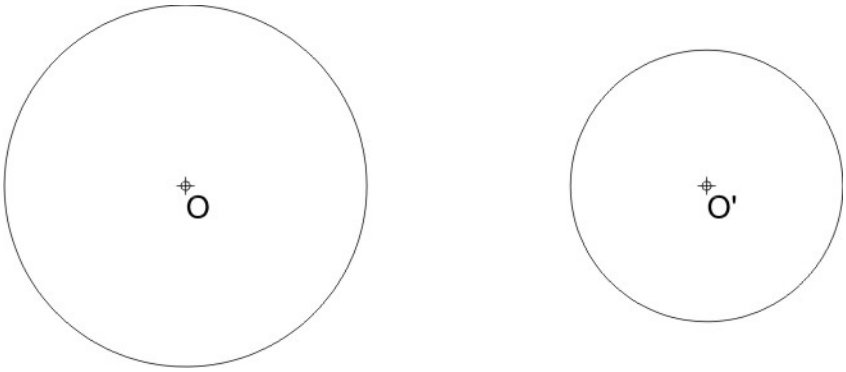

2. – *El campo de Rialto 1756 -* CANALETTO (Giovanni Antonio Canal)
En la reproducción propuesta:

Indique: Sistema de representación, señalando la línea del horizonte y los puntos de fuga, si existen.
Indique: Presencia de polígonos, curvas, tangencias y simetrías. (1 PUNTO).

2. – *El campo de Rialto 1756 -* CANALETTO (Giovanni Antonio Canal)
En la reproducció proposada:

Indiqueu: Sistema de representació, assenyaleu la línia de l'horitzó i els punts de fuga, si n'hi ha.
Indiqueu: Presència de polígons, corbes, tangències i simetries. (1 PUNT).

3.- Dibujad las proyecciones del ortocentro del triángulo ABC. (3 PUNTOS).
3.- Dibuixeu les projeccions de l'ortocentre del triangle ABC. (3 PUNTS).

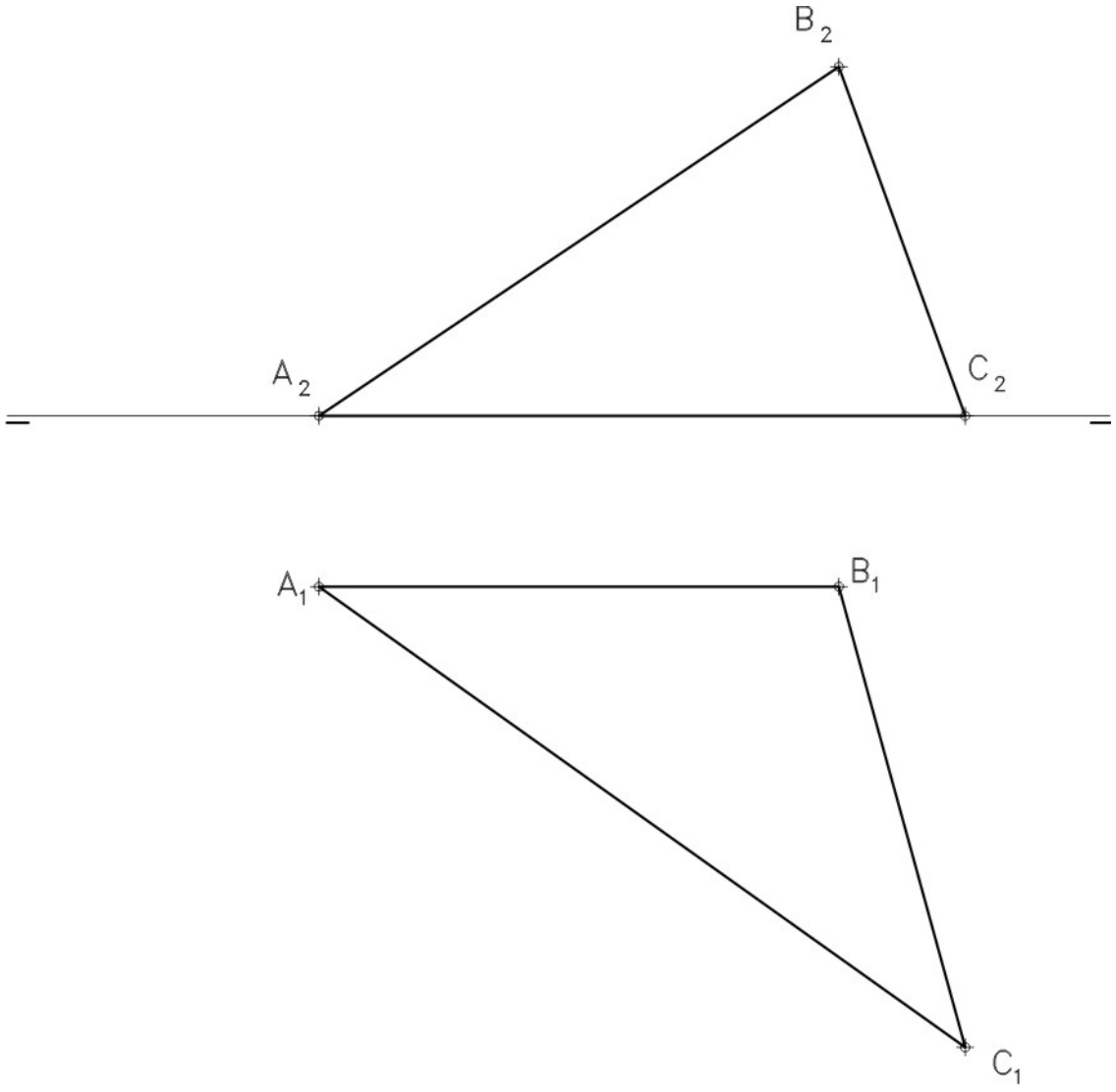

4.- Dibuje a **escala 7:6** la planta, el alzado y la vista lateral derecha del objeto dado por el dibujo isométrico de la figura que está obtenido a la escala 1:1. Utilice como alzado la vista según A. Tome las medidas directamente de la figura. Realice la acotación completa de la misma según las normas. Se valorará el uso de la escala gráfica. (3 PUNTOS)
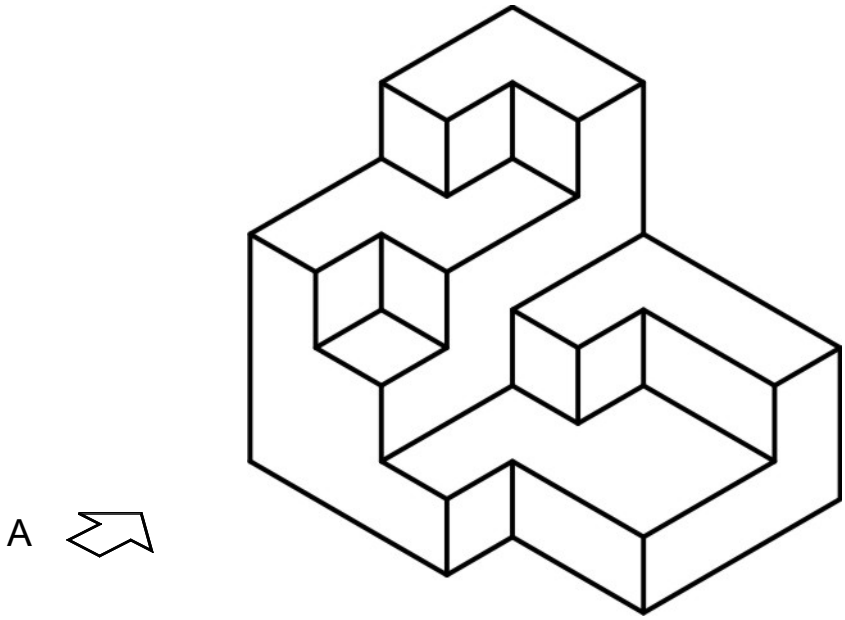
4.- Dibuixeu a **escala 7:6** l'alçat, la planta i la vista lateral dreta de l'objecte donat per el dibuix isomètric de la figura que està obtingut a la escala 1:1. Utilitzeu com alçat la vista segons A. Preneu les mesures directament de la figura. Realitzeu-ne l'acotació completa segons les normes. Es valorarà l'ús d'escales gràfiques. (3 PUNTS)