DIB-04

Elija solamente una de las dos opciones

OPCIÓN A:

1) Conteste breve y concisamente a una de las dos preguntas siguientes:

1.A) Construcción gráfica de elipses.

1.B) División de un segmento en partes iguales. Aplicaciones.

(Valor: hasta 3 puntos)

2) Dada la pieza representada en la figura dibujar, a lápiz y a la escala más apropiada al papel disponible, las seis vistas de la misma en sistema diédrico europeo. No es necesario tener en cuenta el coeficiente corrector 0,816.

(Valor: hasta 7 puntos)

Materiales permitidos en ambas opciones: útiles de dibujo tradicionales, paralex en tamaño A3 y calculadora científica sin prestaciones gráficas ni de programación.

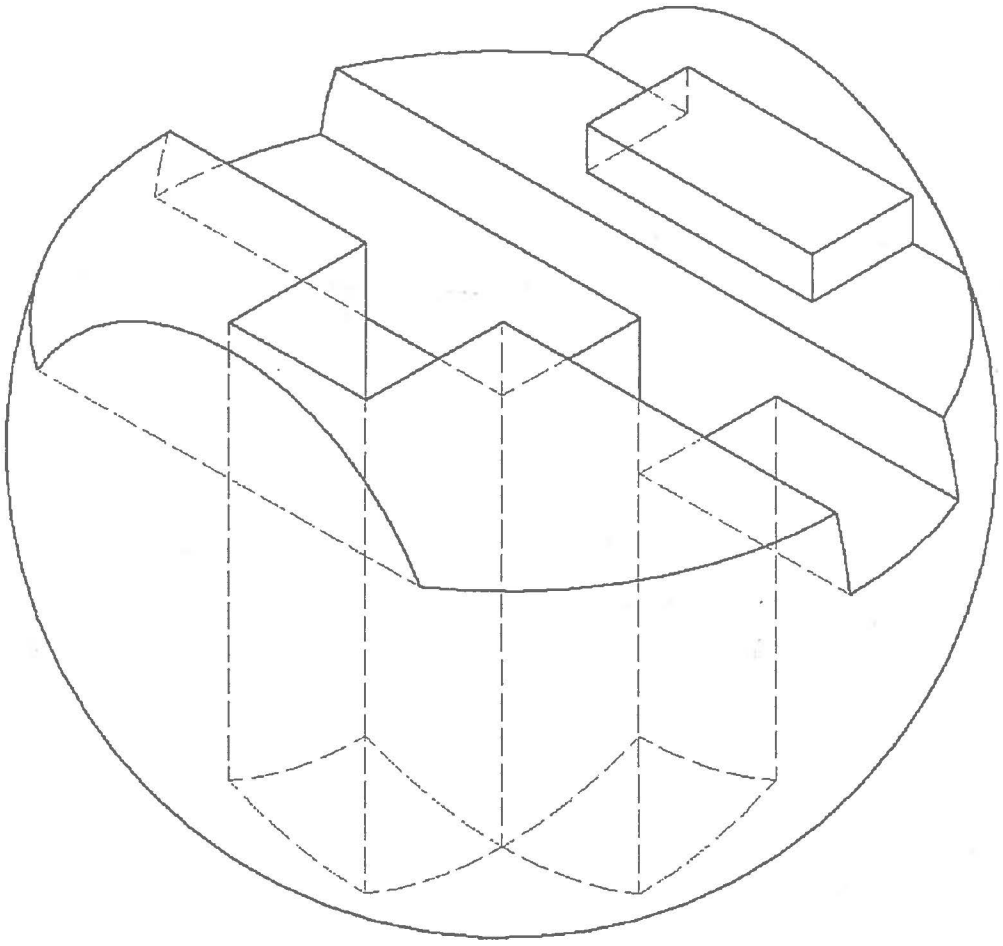

Escala 1:1

DIB-04

OPCIÓN B:

1) Conteste breve y concisamente a una de las dos preguntas siguientes:

1.A) Perspectivas axonométricas ortogonales. Ejemplos prácticos.

1.B) Generación gráfica de una parábola. Ejemplo.

(Valor: hasta 3 puntos)

2) Dada la pieza representada en la figura en sistema diédrico europeo, dibujar, a lápiz y a la escala más apropiada al papel disponible, la perspectiva axonométrica isométrica de la misma. No es necesario tener en cuenta el coeficiente corrector 0,816.

(Valor: hasta 7 puntos)

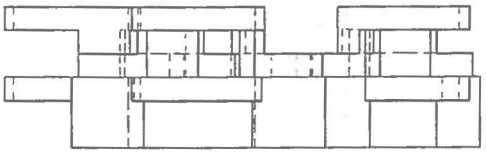

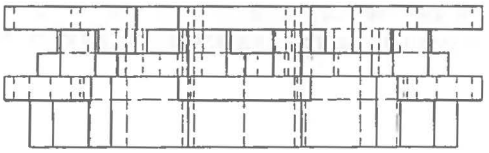

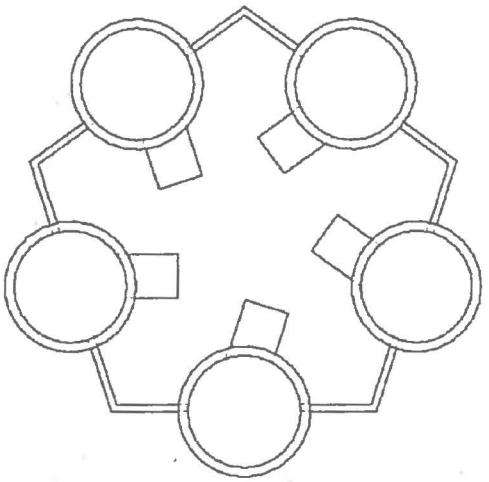

Escala 1:2